LANG LANGS MUSIKPYSSEL

Avståndet mellan två toner kallas **intervall**. De olika intervallen heter så här:

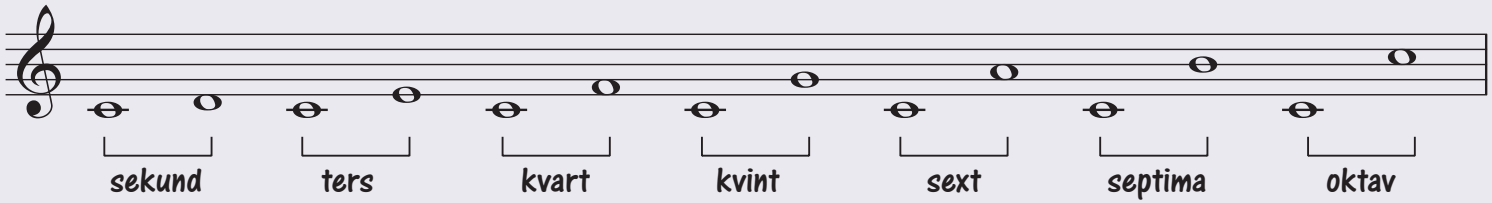

Fyll i de toner och intervall som saknas:

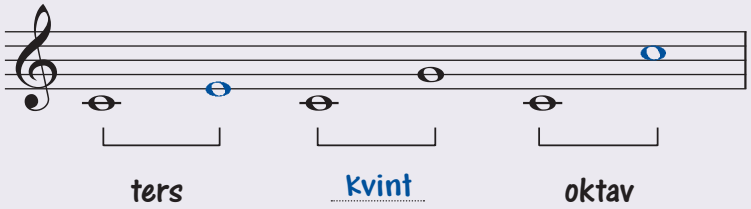

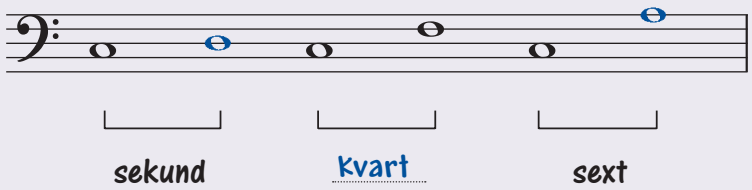

Lös uppgifterna:

Rita in en symbol så att tonen blir ett halvt steg högre:



Vad betyder tecknet?



noten ska betonas

Vad heter tonen:



B♭

Vad heter tonen:



F♯

Rita in en symbol så att tonen blir ett halvt steg lägre:



Vad är det här: ♮?

återställnings-tecken

Vad heter tonen:



E